⑥ ぼうグラフと表

3年	組	番
名前		

1 花だんの花の数を調べます。



① 花の数を、下のグラフに表しましょう。

花の数

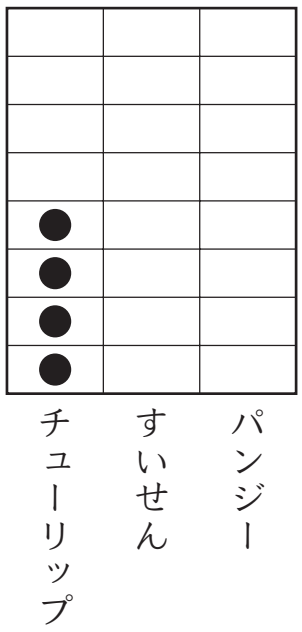

② 花の数を、下の表にまとめましょう。

花の数

名前	チューリップ	すいせん	パンジー
数			

2 下のグラフを見て答えましょう。

① 人数がいちばん多い食べ物は、何ですか。

すきな食べ物

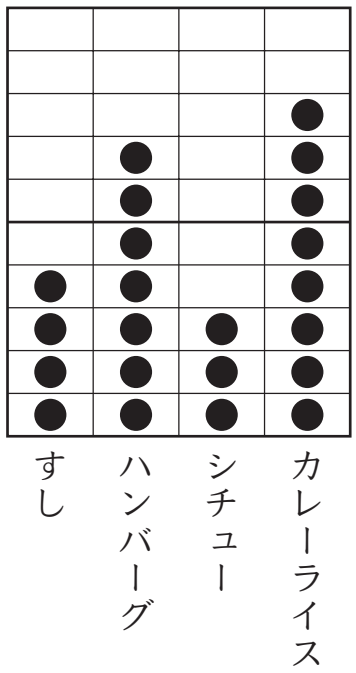

② カレーライスがすきな人は、すしがすきな人より何人多いでしょうか。

人

次の問題は、まだ学習していない内ようです。
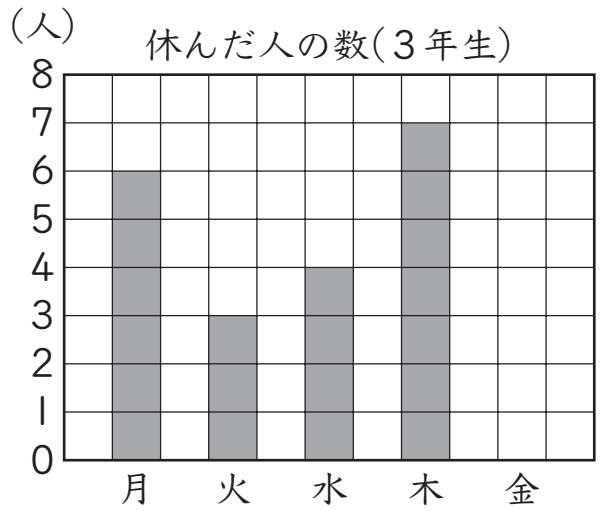
1 下のグラフは、3年生で、先週休んだ人の数を表したものです。金曜日は、4人休みました。金曜日のぼうをかき入れましょう。